注意 1. 右の欄を正確に記入すること。 2. 所属を○で囲むこと。 3. 前記「1.2」を守らない答案は採点されないことがある。

試験日 / 座席番号 —

所属 部: 情報科学部 / 学科: ID IC IS IM IN / 年次: 1 2 3 4 / 科目等履修生

学生番号 — — フリガナ 氏名 組

微積分学I（真貝） 中間テスト 第2回（N2） 解答例

1

(1) $y_1' = e^x + 0 + 12x^3 + 5\cos x - 6\sin x$

(2) $y_2' = -\frac{1}{x^2} + \frac{1}{\sqrt{x}} - 3e^{-3x} + \frac{1}{x} + \frac{5}{\cos^2 x}$

$(\log 4x)' = \frac{1}{4x}(4x)'$

(3) $y_3' = \frac{0-(\sin x)'}{(\sin x)^2} = \frac{-\cos x}{\sin^2 x}$

(4) $y_4' = \left\{(1-x^2)^{\frac{1}{2}}\right\}'$

$= \frac{1}{2}(1-x^2)^{-\frac{1}{2}}\cdot(1-x^2)' = -\frac{x}{\sqrt{1-x^2}}$

(5) $y_5 = \cos^{-1}x \iff x = \cos y$.

$\frac{dx}{dy} = -\sin y$.

$\therefore \frac{dy_5}{dx} = -\frac{1}{\sin y} = -\frac{1}{\sqrt{1-\cos^2 y}} = -\frac{1}{\sqrt{1-x^2}}$

(6) $y_6' = \left(\frac{\sinh x}{\cosh x}\right)'$

$= \frac{(\sinh x)'\cosh x - \sinh x(\cosh x)'}{\cosh^2 x}$

$= \frac{\cosh^2 x - \sinh^2 x}{\cosh^2 x} = \frac{1}{\cosh^2 x}$

2

$y = x\log x$

$y' = 1\cdot\log x + x\cdot\frac{1}{x} = \log x + 1$.

$y' = 0$ となるのは $\log x = -1$ のとき

$\therefore x = e^{-1}$ のとき

増減表は

x	0		$\frac{1}{e}$	
y'		−	0	+
y	0	↘	$-\frac{1}{e}$	↗

これよりグラフは次のようになる

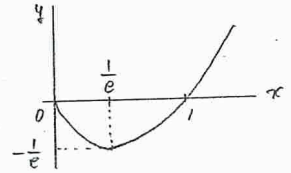

5

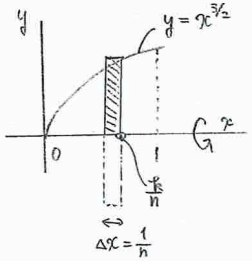

$x \in [0,1]$ を n 等分し，考える回転体を $\Delta x = \frac{1}{n}$ の幅で輪切りにする．

原点から k 番目の円柱の体積 V_k は，半径が $\left(\frac{k}{n}\right)^{\frac{3}{2}}$ の円を底面にして高さ Δx のものとなるので $V_k = \pi\left(\frac{k}{n}\right)^3\cdot\Delta x = \pi\frac{k^3}{n^4}$

したがって 求める体積 V は

$V = \lim_{n\to\infty}\sum_{k=1}^{n} V_k = \lim_{n\to\infty}\pi\cdot\frac{1}{n^4}\sum_{k=1}^{n}k^3 = \lim_{n\to\infty}\pi\frac{1}{n^4}\cdot\left(\frac{n(n+1)}{2}\right)^2$

$= \lim_{n\to\infty}\pi\cdot\frac{1}{4}\left(1\cdot\left(1+\frac{1}{n}\right)\right)^2 = \frac{\pi}{4}$.

所属 科 年・科目等履修生 学生番号 — 氏名

注意 1. 右の欄を正確に記入すること。 2. 所属を○で囲むこと。 3. 前記「1.2」を守らない答案は採点されないことがある。

試験日 / 座席番号 —

所属 部: 情報科学部 / 学科: ID IC IS IM IN / 年次: 1 2 3 4 / 科目等履修生

学生番号 — — フリガナ 氏名 組

3

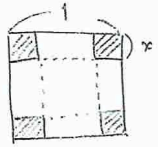

切り取る正方形の一辺の長さを x とする．

つくられる箱の体積 $V(x)$ は

$V(x) = (1-2x)^2\cdot x$ である．

$= x - 4x^2 + 4x^3$.

ビブンして

$V'(x) = 1 - 8x + 12x^2$

$= (1-6x)(1-2x)$

$V'(x) = 0$ となるのは $x = \frac{1}{6}, \frac{1}{2}$ のとき．

増減表を $0 \le x \le \frac{1}{2}$ の範囲で考えると．

x	0		$\frac{1}{6}$		$\frac{1}{2}$
V'		+	0	−	0
V		↗		↘	

となるので $x = \frac{1}{6}$ のとき $V(x)$ は最大となる．

$V\left(\frac{1}{6}\right) = \left(1-\frac{1}{3}\right)^2\cdot\frac{1}{6} = \frac{4}{9}\cdot\frac{1}{6} = \frac{2}{27}$

4

$y = (x^2+2x)e^{3x}$

$f(x) = x^2+2x$, $g(x) = e^{3x}$ として

ライプニッツの公式を用いる．

$f'(x) = 2x+2$

$f''(x) = 2$

$f^{(k)}(x) = 0$ $k = 3,4,5,\cdots$

及び

$g^{(k)}(x) = 3^k e^{3x}$ より

$y^{(n)} = \binom{n}{0}\cdot f(x)\cdot g^{(n)}(x) + \binom{n}{1}f'(x)\cdot g^{(n-1)}(x)$

$+\binom{n}{2}\cdot f''(x)g^{(n-2)}(x) + 0 + 0 + \cdots$

$= (x^2+2x)3^n\cdot e^{3x}$

$+ 2n(x+1)\cdot 3^{n-1}\cdot e^{3x}$

$+ \frac{n(n-1)}{2}\cdot 2\cdot 3^{n-2}e^{3x}$

$= \left\{9(x^2+2x) + 6n(x+1) + n(n-1)\right\}3^{n-2}e^{3x}$

$= \left(9x^2 + (18+6n)x + n^2+5n\right)3^{n-2}e^{3x}$

所属 科 年・科目等履修生 学生番号 — 氏名